Plan de travail du jeudi 2 avril CE1

Chères familles,
Nous aimerions, si vous le pouvez, que vous nous fassiez parvenir **par mail** les travaux de vos enfants. Sous forme de photos ou de scan du cahier. Bon courage à toutes et tous, Mme Meyer et M. Cornec

Devinette à dire à quelqu'un :

Quel est le dessert préféré des dictionnaires ? Le mille-feuille

Calcul posé :

Pense à tracer les traits à la règle et à aligner les chiffres correctement. Tu peux utiliser la table de Pythagore si besoin.

Niv1 402 + 103 697 - 52

Niv2 154 + 365 424 - 362



Etude de la langue :

Conjugue chaque phrase à **l'imparfait** avec le verbe proposé :

Aides dans la « boite à outils » sur le site.

porter → Mon papa _____ une beau chapeau.

chuchoter → Vous _____ pour travailler.

déposer → Nous _____ des fleurs sur la table.

chanter → Tu _____ hier soir.

Géométrie :

Travaille soigneusement et pense à tailler ton crayon.

Reproduis ce dessin sur ton cahier et **colorie**-le.

Niv1

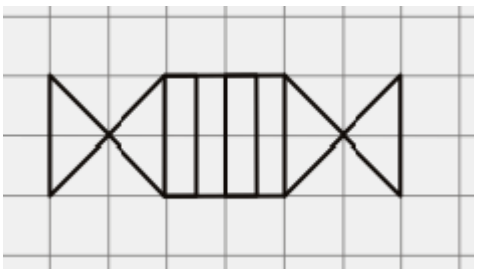

Niv2

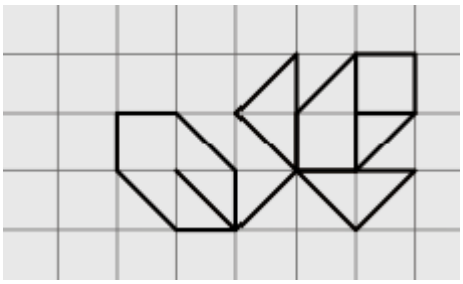



Défi sportif n°1 :

La pétanque molle

But : Envoyer le plus de chaussettes dans la zone.

Matériel : cerceau ou couvercle de boite ou tapis, 6 chaussettes

Le jeu : Tu as besoin de plusieurs paires de chaussettes (les tiennes, celles de ta famille, ….) que tu roules en boule.

Te voilà avec un jeu de boules de pétanque molle.

Tu peux jouer seul avec un cerceau ou un couvercle de boite assez grand que tu poses au sol.

Tu t'assois sur ton lit et tu lances tes boules pour qu'elles tombent dans le cerceau.

Compte combien tombent dans le cerceau ou la boite.

Exemple : https://www.youtube.com/watch?v=UnHkQPcKXxM&t=2s

Défi CE1, CE2 : tu dois effectuer 6 lancers dans une zone située à 2 m de distance.

Tu dois bien sûr t'entraîner.

Quand tu es prêt, tu comptes et tu notes ton record sur 6 lancers de suite.

Résultat : Tu dois nous envoyer ton record.